МАТЕМАТИЧЕСКИЕ ПРЕДСТАВЛЕНИЯ

ЧИСЛО И ЦИФРА

8

(ЯГОДЫ)

ПОСМОТРИ ВНИМАТЕЛЬНО И ЗАПОМНИ: ЭТО ЦИФРА ВОСЕМЬ (ПОВТОРИТЬ НЕСКОЛЬКО РАЗ)



ОБВЕДИ ПАЛЬЧИКОМ ЦИФРУ

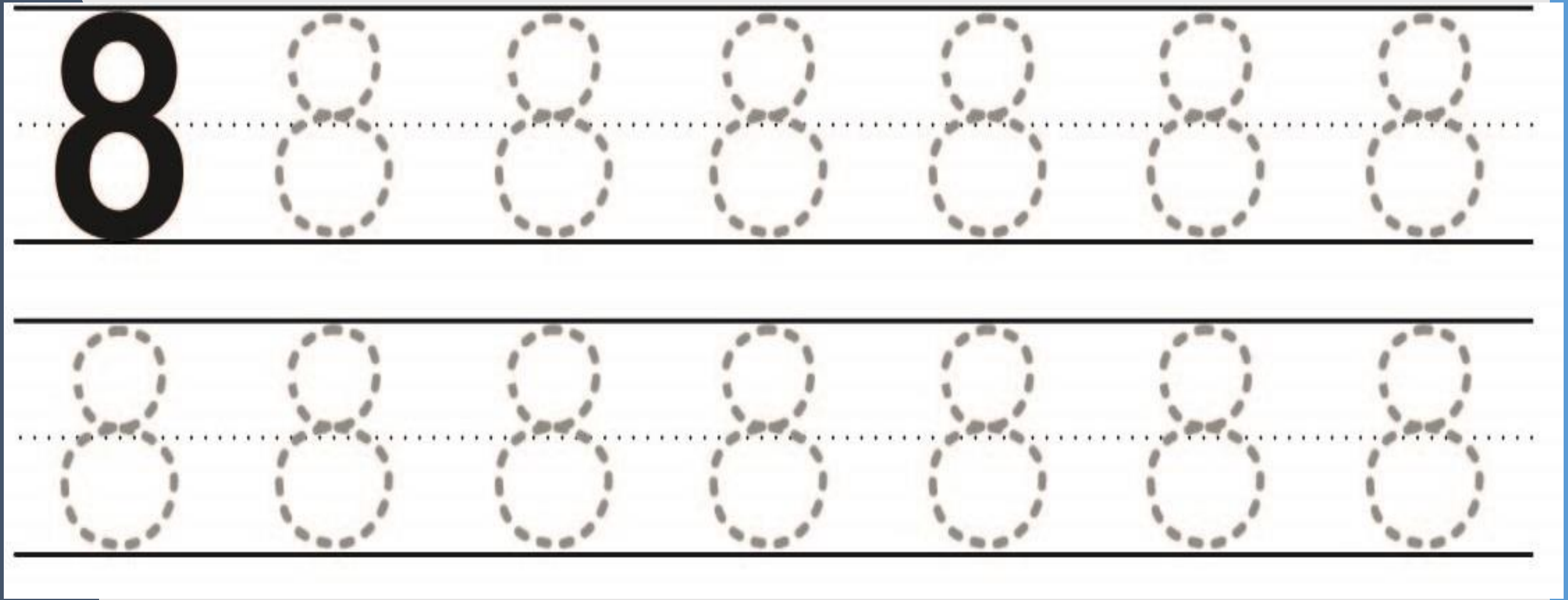

ПОСЧИТАЙ, СКОЛЬКО КЛУБНИЧЕК КАРТИНКЕ (8 КЛУБНИК)

КЛУБНИКА – ЭТО ЯГОДА (ПОВТОРИТЬ НЕСКОЛЬКО РАЗ)





СКОЛЬКО МАЛИНЫ НА КАРТИНКЕ, ДАВАЙ ПОСЧИТАЕМ ВМЕСТЕ (1,2,3,4,5,6,7,8 - 8 МАЛИН)

МАЛИНА - ЭТО ЯГОДА

СКОЛЬКО ВИШЕН НА КАРТИНКЕ (8 ВИШЕН)
ВИШНЯ - ЭТО ЯГОДА (повторить несколько раз)



ЭТО СМОРОДИНА, СКОЛЬКО ЯГОД СМОРОДИНЫ НА ВЕТОЧКЕ? (8 ЯГОД СМОРОДИНЫ)

СМОРОДИНА-ЭТО ЯГОДА

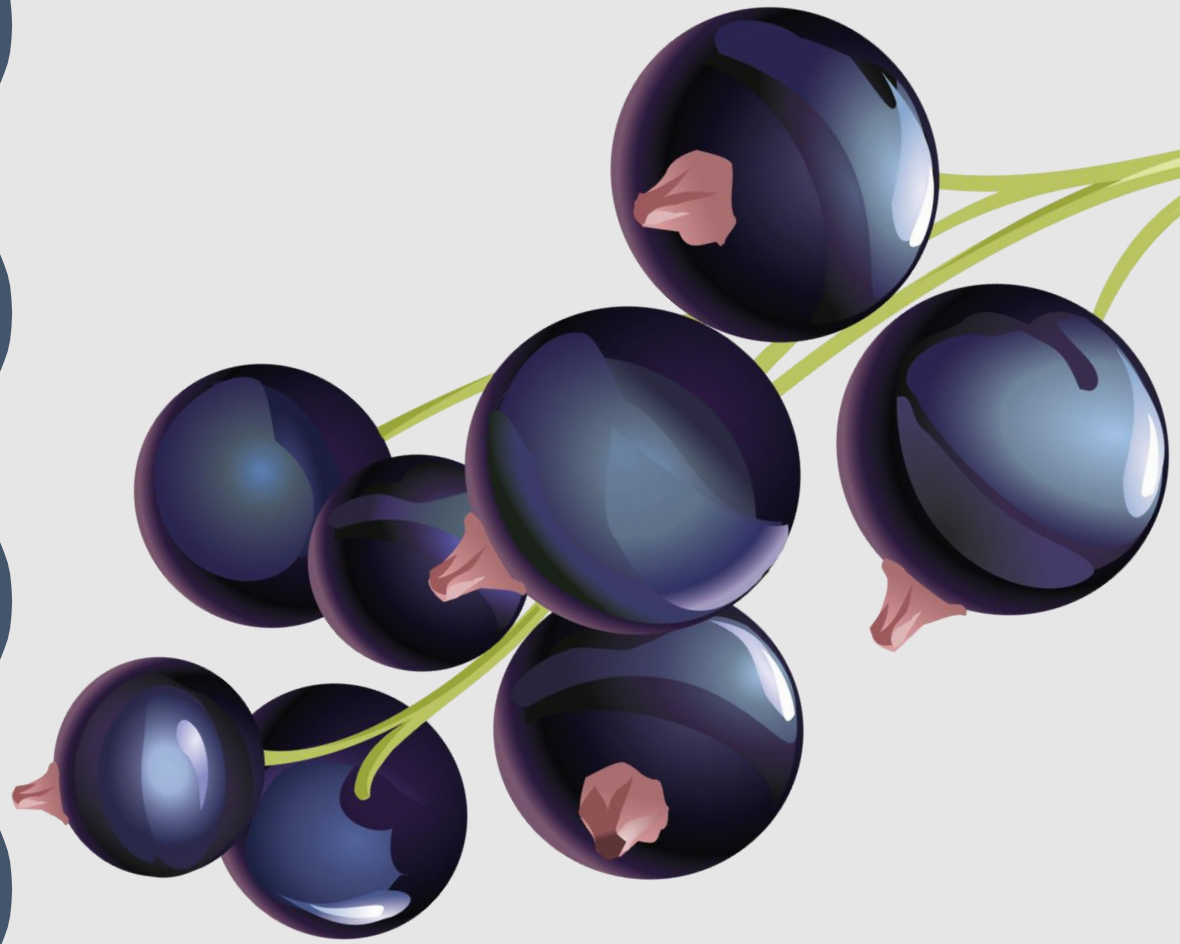

ПОСЧИТАЙ, СКОЛЬКО КРЫЖОВНИКА НА КАРТИНКЕ?

(8 ЯГОД КРЫЖОВНИКА)

КРЫЖОВНИК - ЭТО ЯГОДА (ПОВТОРИТЬ НЕСКОЛЬКО РАЗ)

8

ПОСМОТРИ ВНИМАТЕЛЬНО И ЗАПОМНИ:

Клубника, вишня, смородина, малина, крыжовник – это всё **ягода**, ягода растёт на кусте.

Покажи пальчиком, где малина, где вишня…

КАКУЮ ЦИФРУ МЫ СЕГОДНЯ ВЫУЧИЛИ? ДАВАЙ НАЙДЁМ ВСЕ ЦИФРЫ 8, КОТОРЫЕ СПРЯТАЛИСЬ НА КАРТИНКЕ

КАКИЕ ЦИФРЫ ТЫ УЖЕ ЗНАЕШЬ?

(ПОКАЖИ ГДЕ ЦИФРА 7 , ГДЕ ЦИФРА 6 , ГДЕ ЦИФРА 5, ГДЕ ЦИФРА 4…)

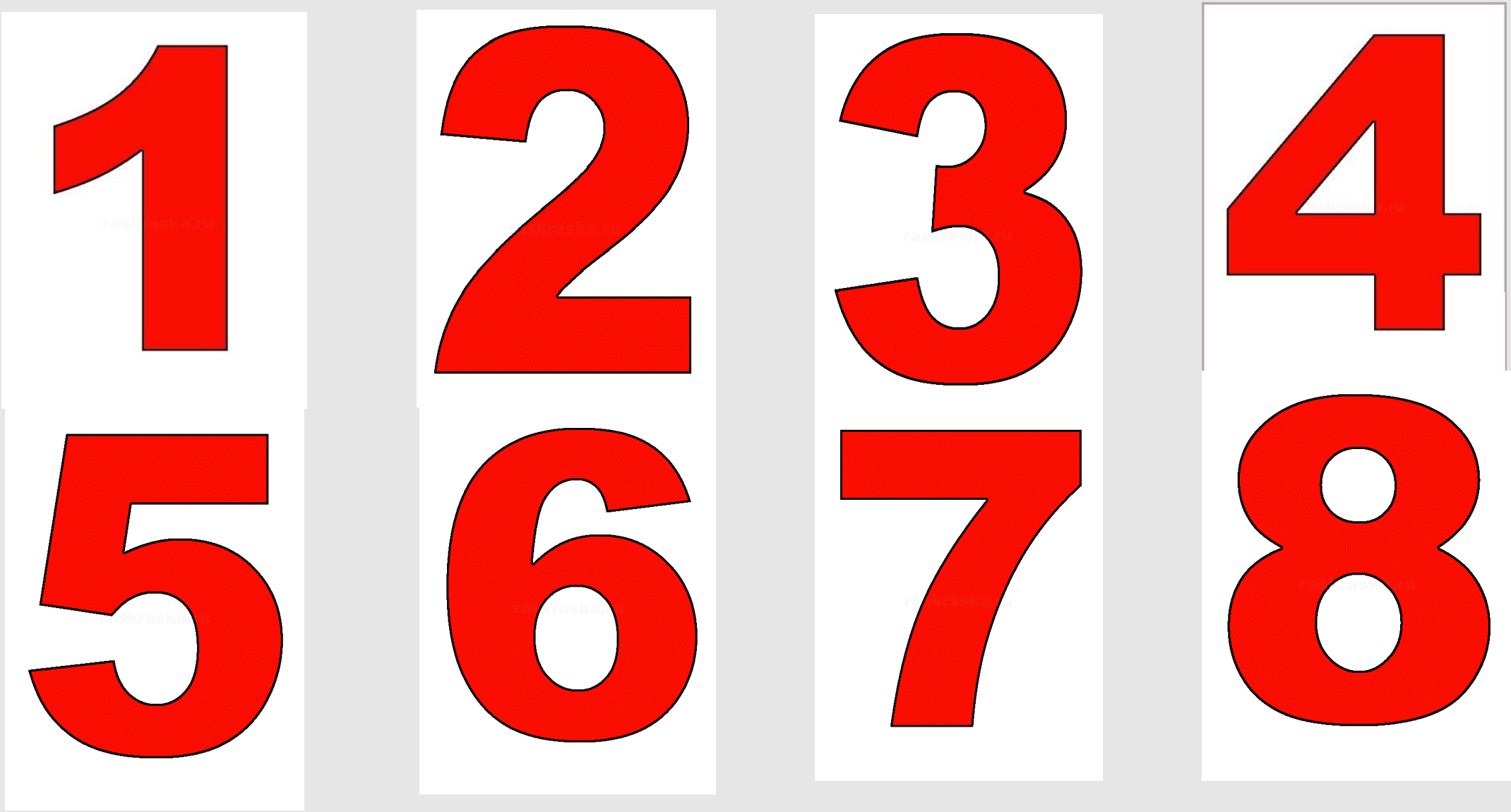

Какая цифра стоит после 1

Какая цифра стоит перед 2

Какая цифра стоит после 2

Какая цифра стоит перед 3

Какая цифра стоит после 3

Какая цифра стоит перед 4

Какая цифра стоит между

1 и 3

Какая цифра стоит между

2 и 4

Какая цифра стоит после 5

Какая цифра стоит после 6

Какая цифра стоит после 7

Какая цифра стоит перед 8

Какая цифра стоит перед 7

Какая цифра стоит перед 6

Какая цифра стоит между 5 и 7

Какая цифра стоит между 6 и 8